ΕΛΛΗΝΙΚΗ ΔΗΜΟΚΡΑΤΙΑ

ΥΠΟΥΡΓΕΙΟ ΕΣΩΤΕΡΙΚΩΝ

ΓΕΝΙΚΗ ΓΡΑΜΜΑΤΕΙΑ ΙΘΑΓΕΝΕΙΑΣ

ΘΕΜΑΤΑ & ΑΠΑΝΤΗΣΕΙΣ ΕΞΕΤΑΣΕΩΝ

ΘΕΜΑΤΙΚΕΣ ΕΝΟΤΗΤΕΣ

ΚΑΤΑΝΟΗΣΗ ΚΑΙ ΠΑΡΑΓΩΓΗ ΓΡΑΠΤΟΥ ΛΟΓΟΥ

ΚΑΤΑΝΟΗΣΗ ΠΡΟΦΟΡΙΚΟΥ ΛΟΓΟΥ

ΠΑΡΑΓΩΓΗ ΠΡΟΦΟΡΙΚΟΥ ΛΟΓΟΥ

ΠΙΣΤΟΠΟΙΗΤΙΚΟ ΕΠΑΡΚΕΙΑΣ ΓΝΩΣΕΩΝ

ΓΙΑ ΤΗΝ ΠΟΛΙΤΟΓΡΑΦΗΣΗ

ΑΠΡΙΛΙΟΣ 2026

ΘΕΜΑΤΙΚΕΣ ΕΝΟΤΗΤΕΣ

Θ1 (χ)

Βρείτε και σημειώστε με (●) στον χάρτη του τετραδίου σας τα παρακάτω νησιά, γράφοντας δίπλα ολογράφως και την αντίστοιχη ονομασία τους.

Τα νησιά: (1) Ρόδος (2) Λευκάδα (3) Χίος (4) Εύβοια

Απάντηση:



Θ2 (χ)

Βρείτε και σημειώστε με (●) στον χάρτη του τετραδίου σας τις παρακάτω προστατευόμενες περιοχές του ευρωπαϊκού δικτύου Natura 2000, γράφοντας δίπλα ολογράφως και την αντίστοιχη ονομασία τους .

1. Λίμνη Υλίκη, 2. Μικρή και Μεγάλη Πρέσπα, 3. Λίμνη Κερκίνη, 4. Θαλάσσιο Πάρκο Αλοννήσου

Απάντηση:



Θ3

Γράψτε στο τετράδιό σας τον αριθμό του θέματος και τον αριθμό που αντιστοιχεί σε κάθε κενό, σημειώνοντας δίπλα τη λέξη ή τη φράση που ταιριάζει, επιλέγοντας από τις παρακάτω:
η Θεσσαλονίκη, ο Αλιάκμονας, ο Ψηλορείτης (Ίδη), η Τριχωνίδα

1. Το μεγαλύτερο (σε μήκος) ποτάμι εντός της Ελλάδας είναι ___***ο Αλιάκμονας***___
2. Η δεύτερη μεγαλύτερη πόλη της Ελλάδας είναι __***η Θεσσαλονίκη***__
3. Το υψηλότερο βουνό της Κρήτης είναι ___***ο Ψηλορείτης (Ίδη)***__
4. Η μεγαλύτερη λίμνη της Ελλάδας είναι __***η Τριχωνίδα***___

Θ4

Γράψτε στο τετράδιό σας τον αριθμό του θέματος και τον αριθμό της κάθε πρότασης, σημειώνοντας Σ, αν η πρόταση που σας δίνεται παρακάτω είναι σωστή, ή Λ, αν είναι λάθος.

1. Τα Κύθηρα έχουν αεροδρόμιο **(Σ)**
2. Από την Ηγουμενίτσα ταξιδεύουν πλοία προς το εξωτερικό **(Σ)**
3. Η Ξάνθη διαθέτει σιδηροδρομική σύνδεση **(Σ)**
4. Η Λάρισα διαθέτει ακτοπλοϊκή σύνδεση **(Λ)**

Απάντηση: 1. **Σ** 2. **Σ** 3. **Σ** 4. **Λ**

Θ5

Γράψτε στο τετράδιό σας τον αριθμό του θέματος και να αναγνωρίσετε τα μνημεία που απεικονίζονται στις φωτογραφίες, σημειώνοντας τον αριθμό του μνημείου και δίπλα το γράμμα από την εικόνα που ταιριάζει.

1. Η Πύλη των Λεόντων στις Μυκήνες
2. Η Θόλος των Δελφών
3. Ο Ναός Ποσειδώνος στο Σούνιο
4. Οι στύλοι του Ολυμπίου Διός στην Αθήνα

Απάντηση: **1.** Εικ. Δ **2.** Εικ. Β **3.** Εικ. Α **4.** Εικ. Γ

3.Ο Ναός Ποσειδώνος στο Σούνιο



Εικ. Α

2.Η Θόλος των Δελφών



Εικ. Β

4.Οι στύλοι του Ολυμπίου Διός στην Αθήνα



Εικ. Γ

1. Η Πύλη των Λεόντων στις Μυκήνες



Εικ. Δ

Θ6

Γράψτε στο τετράδιό τον αριθμό του θέματος και δίπλα τη σωστή απάντηση σημειώνοντας το αντίστοιχο γράμμα (Α ή Β ή Γ ή Δ).
Ποια από τις παρακάτω πόλεις-κράτη της αρχαίας Ελλάδας θεωρείται ως η κοιτίδα της Δημοκρατίας;

Α. η Σπάρτη
Β. η Θήβα
Γ. η Αθήνα
Δ. η Κόρινθος

Θ7

Γράψτε στο τετράδιό τον αριθμό του θέματος και δίπλα τη σωστή απάντηση σημειώνοντας το αντίστοιχο γράμμα (Α ή Β ή Γ ή Δ).

Σύμφωνα με τη Θεογονία του Ησίοδου, η θεά Αφροδίτη γεννήθηκε:

Α. σε μία σπηλιά της Αφρικής

Β. από τον αφρό της θάλασσας

Γ. από την αφράτη ζύμη της αμβροσίας

Δ. από τον άφρονα Κένταυρο Ακταίωνα

Θ8

Γράψτε στο τετράδιό σας τον αριθμό του θέματος και τον αριθμό της κάθε πρότασης σημειώνοντας Σ, αν η πρόταση που σας δίνεται παρακάτω είναι σωστή, ή Λ, αν είναι λάθος.

1. Ο ναός της Αγίας Σοφίας στην Κωνσταντινούπολη ανήκει στον αρχιτεκτονικό τύπο: «Βασιλική με τρούλλο» **(Σ)**
2. Στο Άγιον Όρος σώζονται βυζαντινά παλάτια **(Λ)**
3. Το κάστρο της Μονεμβασιάς είναι κλασικής περιόδου **(Λ)**
4. Στον βυζαντινό ναό, οι εικόνες τοποθετούνταν στο τέμπλο **(Σ)**

Απάντηση: 1. **Σ** 2. **Λ** 3. **Λ** 4. **Σ**

Θ9

Γράψτε στο τετράδιό τον αριθμό του θέματος και δίπλα τη σωστή απάντηση σημειώνοντας το αντίστοιχο γράμμα (Α ή Β ή Γ ή Δ). Τ*ον Οκτώβριο του 1912 ο ελληνικός στρατός απελευθέρωσε:*

Α. τα Ιωάννινα

Β. την Αθήνα

Γ. την Κέρκυρα

Δ. τη Θεσσαλονίκη

Θ10

Γράψτε στο τετράδιό τον αριθμό του θέματος και δίπλα τη σωστή απάντηση σημειώνοντας το αντίστοιχο γράμμα (Α ή Β ή Γ ή Δ).

***Στις 28 Οκτωβρίου 1940*:**

Α. η Ιταλία επιτέθηκε εναντίον της Ελλάδας.

Β. η Ελλάδα επιτέθηκε εναντίον της Ιταλίας.

Γ. η Ελλάδα επιτέθηκε εναντίον της Γερμανίας.

Δ. η Γερμανία επιτέθηκε εναντίον της Ελλάδας.

Θ11

Γράψτε στο τετράδιό σας τον αριθμό του θέματος και να αντιστοιχίσετε τις περιοχές της στήλης Ι με τα έτη της στήλης ΙΙ κατά τα οποία αυτές έγιναν τμήματα του ελληνικού κράτους σημειώνοντας τον αριθμό από τη στήλη Ι και δίπλα το γράμμα από τη στήλη ΙΙ που ταιριάζει.

ΣΤΗΛΗ Ι		**ΣΤΗΛΗ ΙΙ**	
1.	Θεσσαλία	**Α.**	1948
2.	Μακεδονία	**Β.**	1881
3.	Δωδεκάνησα	**Γ.**	1913
4.	Επτάνησα	**Δ.**	1864

Απάντηση: **1**-Β. **2**-Γ. **3**-Α. **4**-Δ.

Θ12

Γράψτε στο τετράδιό τον αριθμό του θέματος και δίπλα τη σωστή απάντηση σημειώνοντας το αντίστοιχο γράμμα (Α ή Β ή Γ ή Δ).

Την Ελληνική Επανάσταση προετοίμασε:

Α. η Φιλική Εταιρεία

Β. η Επαναστατική Οργάνωση

Γ. το Ρωσικό Κόμμα

Δ. η Ιερή Συμμαχία

Θ13

Γράψτε στο τετράδιό σας τον αριθμό του θέματος και δίπλα τη σωστή απάντηση, σημειώνοντας το αντίστοιχο γράμμα (Α ή Β ή Γ ή Δ).

Ποιος είναι ο εικονιζόμενος:



Α. Ο πρώτος Βασιλιάς της Ελλάδας, ο Όθωνας

Β. Ο Βασιλιάς Γεώργιος Α'

Γ. Ο Κωνσταντίνος Παλαιολόγος

Δ. Ο Ιωάννης Καποδίστριας

Θ14

Γράψτε στο τετράδιό τον αριθμό του θέματος και δίπλα τη σωστή απάντηση σημειώνοντας το αντίστοιχο γράμμα (Α ή Β ή Γ ή Δ). ***Την 28η Οκτωβρίου 1940, το «ΟΧΙ» στους Ιταλούς είπε ο:***

Α. Νικόλαος Πλαστήρας

Β. Ιωάννης Μεταξάς

Γ. Βασιλιάς Γεώργιος Β'

Δ. Ελευθέριος Βενιζέλος

Θ15

Γράψτε στο τετράδιό τον αριθμό του θέματος και δίπλα τη σωστή απάντηση σημειώνοντας το αντίστοιχο γράμμα (Α ή Β ή Γ ή Δ). ***Η σημαία της Ε.Ε. περιέχει:***

Α. 12 μπλε αστέρια σε κύκλο με κίτρινο φόντο

Β. 27 μπλε αστέρια σε κύκλο με κίτρινο φόντο

Γ. 12 κίτρινα αστέρια σε κύκλο με μπλε φόντο

Δ. 27 κίτρινα αστέρια σε κύκλο με μπλε φόντο

Θ16

Γράψτε στο τετράδιό σας τον αριθμό του θέματος και δίπλα τη σωστή απάντηση σημειώνοντας το αντίστοιχο γράμμα (Α ή Β ή Γ ή Δ). ***Στις αρμοδιότητες ενός Δήμου υπάγονται τα θέματα:***

Α. στάθμευσης

Β. δημοτολογίου

Γ. καθαριότητας/ανακύκλωσης

Δ. όλα τα παραπάνω

Θ17

Γράψτε στο τετράδιό τον αριθμό του θέματος και δίπλα τη σωστή απάντηση σημειώνοντας το αντίστοιχο γράμμα (Α ή Β ή Γ ή Δ). ***Η τελευταία αναθεώρηση του Ελληνικού Συντάγματος έγινε*****:**

Α. Το 2019

Β. Το 2024

Γ. Το 1998

Δ. Το 1974

Θ18

Γράψτε στο τετράδιό σας τον αριθμό του θέματος και δίπλα τη σωστή απάντηση σημειώνοντας το αντίστοιχο γράμμα (Α ή Β ή Γ ή Δ). ***Για να εκλεγεί κάποιος/α δήμαρχος από τον πρώτο γύρο με το ισχύον εκλογικό σύστημα πρέπει :***

Α. να εξασφαλίσει το 50% των ψήφων

Β. να εξασφαλίσει ποσοστό μεγαλύτερο του σαράντα τρία τοις εκατό (43% + 1 ψήφος) των ψήφων

Γ. να είναι ο πρώτος/ η πρώτη ανεξαρτήτως ποσοστού

Δ. κανένα από τα υπόλοιπα

Θ19

Γράψτε στο τετράδιό σας τον αριθμό του θέματος και δίπλα τη σωστή απάντηση, σημειώνοντας το αντίστοιχο γράμμα (Α ή Β ή Γ ή Δ).

Τι από τα παρακάτω δεν επιτρέπεται σε μία γυναίκα στην Ελλάδα;

Α. Να προχωρήσει, εντός των 12 πρώτων εβδομάδων, σε διακοπή κύησης (άμβλωση/ έκτρωση)

Β. Να θηλάσει σε δημόσιο χώρο

Γ. Να γίνει Αρχηγός των Ενόπλων Δυνάμεων

Δ. Να επισκεφθεί το Άγιο Όρος

Θ20

Γράψτε στο τετράδιό σας τον αριθμό του θέματος και τον αριθμό της κάθε πρότασης σημειώνοντας Σ, αν η πρόταση που σας δίνεται παρακάτω είναι σωστή, ή Λ, αν είναι λάθος.

Ο Πρόεδρος της Δημοκρατίας:

1. Μπορεί να δικαστεί μόνο από το Ειδικό Δικαστήριο. **(Σ)**
2. Αν παραπεμφθεί σε δίκη, ακόμη και αν στη συνέχεια αθωωθεί, δεν μπορεί να αναλάβει πάλι τα καθήκοντά του. **(Λ)**
3. Δεν έχει άλλες αρμοδιότητες, παρά μόνο όσες του απονέμουν ρητά το Σύνταγμα και οι νόμοι. **(Σ)**
4. Απονέμει τους βαθμούς σε όσους υπηρετούν στις Ένοπλες Δυνάμεις. **(Σ)**

Απάντηση: 1. **Σ** 2. **Λ** 3. **Σ** 4. **Σ**

ΚΑΤΑΝΟΗΣΗ ΚΑΙ ΠΑΡΑΓΩΓΗ ΓΡΑΠΤΟΥ ΛΟΓΟΥ

Διαβάστε με προσοχή το παρακάτω κείμενο και στη συνέχεια απαντήστε στις ερωτήσεις που ακολουθούν

Καλή σας επιτυχία

Ελληνική κουζίνα



Η ελληνική κουζίνα βασίζεται στα προϊόντα εποχής, στην απλότητα, τη διάρκεια, την εντοπιότητα και τον υγιεινό της χαρακτήρα. Η υπεροχή των ξεχωριστών ελληνικών προϊόντων, τα οποία καλλιεργούνται στο μεσογειακό κλίμα της χώρας μας, έχει ενισχύσει τον σεβασμό για τις γεύσεις της παραδοσιακής ελληνικής κουζίνας και μαγειρικής, οι οποίες παραμένουν σε μεγάλο βαθμό εποχικές.

Οι ρίζες της ελληνικής κουζίνας φθάνουν ως την αρχαιότητα. Το ελαιόλαδο, το μέλι, τα βότανα, τα αγριόχορτα, τα όσπρια, τα ψάρια και θαλασσινά, οι ξηροί καρποί, οι σπόροι σουσαμιού, τα δημητριακά ολικής άλεσης και λίγα τυριά, απλώς από κατσικίσιο και πρόβειο γάλα, είναι τα διαχρονικά προϊόντα του ελληνικού τραπεζιού.

Στην παραδοσιακή ελληνική διατροφή, που είναι ουσιαστικά μεσογειακή, τα λαχανικά και τα όσπρια εμφανίζονται σε αναρίθμητα πιάτα και παρέχουν την κατάλληλη ημερήσια ποσότητα κατανάλωσης. Συνοδευμένα με ψωμί ολικής άλεσης και λίγο τυρί (πρωτεΐνη), αυτά τα γεύματα είναι πλήρη από θρεπτική άποψη. Ο πλούτος των πιάτων με λαχανικά προέκυψε από τις παραδόσεις της νηστείας, που απαιτούσαν αποχή από όλα τα ζωικά προϊόντα περίπου για το μισό έτος.

Σήμερα, οι Έλληνες είναι θερμοί κρεατοφάγοι, αλλά παραδοσιακά, το κρέας ήταν περιορισμένο και καταναλωνόταν ως εορταστικό φαγητό ή συνδυαζόταν με τρόφιμα βασισμένα στα χορταρικά, μαγειρεμένα στην κατσαρόλα ή στον φούρνο. Το εξαιρετικά παρθένο ελληνικό ελαιόλαδο είναι το βασικό μαγειρικό λίπος που χρησιμοποιείται στην Ελλάδα και το οποίο περιχύνεται σε κάθε είδος σαλάτας και σε πολλά μαγειρευτά πιάτα, αφού αυτά ολοκληρωθούν.

Διασκευή για τις ανάγκες των εξετάσεων https://winesofgreece.org/el/, 5/12/2020

ΜΕΡΟΣ Α

Γράψτε στο τετράδιο τον αριθμό της άσκησης και δίπλα σημειώστε «Σ» για τη σωστή απάντηση, «Λ» για τη λανθασμένη απάντηση και Δ/Α για την πρόταση που δεν αναφέρεται στο κείμενο.

1. Η παραδοσιακή ελληνική διατροφή ακολουθεί τη μεσογειακή διατροφή. **(Σ)**
2. Η ελληνική κουζίνα αποτελεί πρότυπο για τις διεθνείς κουζίνες. **(ΔΑ)**
3. Υπάρχει μεγάλη ποικιλία ελληνικών τυριών. **(Λ)**
4. Οι Έλληνες στις μέρες μας τρώνε πολύ κρέας. **(Σ)**
5. Ψωμί ολικής άλεσης με τυρί και λαχανικά αποτελεί ένα πλήρες γεύμα. **(Σ)**

Διαβάστε τις παρακάτω προτάσεις και γράψτε στο τετράδιο τον αριθμό της άσκησης και δίπλα τη σωστή απάντηση.

6. Η ελληνική κουζίνα είναι

Α. νέα

Β. μοντέρνα

Γ. μεσογειακή

7. Η κατανάλωση πολλών λαχανικών οφείλεται

Α. στην αφθονία τους

Β. στην καλλιέργειά τους

Γ. στην παράδοση της νηστείας

8. Στην ελληνική κουζίνα κυριαρχούν

Α. τα προϊόντα της κάθε εποχής

Β. τα προϊόντα των θερμοκηπίων

Γ. τα τυριά

9. Το κρέας σύμφωνα με την παράδοση

Α. ήταν συνηθισμένο φαγητό

Β. ήταν ένα καθημερινό πιάτο

Γ. ήταν το φαγητό των γιορτών

ΜΕΡΟΣ Β

Γράψτε στο τετράδιο τον αριθμό της άσκησης και δίπλα την απάντησή σας:

1. Η λέξη « εντοπιότητα» αναφέρεται σε προϊόντα

Α. της περιοχής

Β. από άλλη χώρα

Γ. από άλλη πόλη

2. «παραδοσιακή»: λέξη με <u>αντίθετη</u> σημασία είναι

Α. κλασική

Β. μοντέρνα

Γ. δύσκολη

3. «αποχή»: <u>παρόμοια</u> σημασία έχει η φράση

Α. πρέπει να φας

Β. σε συμβουλεύουμε να φας

Γ. αποφεύγεις να φας

4. «διαχρονικά»: λέξη με <u>παρόμοια</u> σημασία είναι

Α. παντοτινά

Β. σύγχρονα

Γ. παρελθοντικά

5. «αναρίθμητα»: λέξη με <u>αντίθετη</u> σημασία είναι

Α. πολλά

Β. άπειρα

Γ. ελάχιστα

6. Να μεταφέρετε το ρήμα στον κατάλληλο τύπο, για να δηλώνει το παρόν.

Οι άνθρωποι συνδύαζαν το κρέας με χορταρικά.

Τώρα οι άνθρωποι ..... **συνδυάζουν** ..... το κρέας με χορταρικά.

7. Να μεταφέρετε το ρήμα στον κατάλληλο τύπο, για να δηλώνει το μέλλον.

Η ελληνική κουζίνα βασίζεται στον υγιεινό της χαρακτήρα.

Και τα επόμενα χρόνια η ελληνική κουζίνα ..... **θα βασίζεται** ..... στον υγιεινό της χαρακτήρα.

8. Να μεταφέρετε το ρήμα στον κατάλληλο τύπο, για να δηλώνει το παρελθόν.

Τα λαχανικά και τα όσπρια παρέχουν πολλά θρεπτικά συστατικά.

Τα λαχανικά και τα όσπρια ... **παρείχαν** ... πολλά θρεπτικά συστατικά και στο παρελθόν.

9. Να συμπληρώσετε τη δεύτερη πρόταση με την υπογραμμισμένη λέξη σε άλλη μορφή.

Τα γεύματα αυτά είναι πλήρη <u>συνοδευμένα</u> με ψωμί ολικής άλεσης.

Τα γεύματα αυτά είναι πλήρη, αν κάθε φορά εσύ τα ... **συνοδεύεις** ..... με ψωμί ολικής άλεσης.

ΜΕΡΟΣ Γ

Διαβάστε με προσοχή το παρακάτω θέμα και γράψτε το δικό σας κείμενο (80-100 λέξεις). Επισημαίνουμε ότι δεν πρέπει να υπογράψετε με το ονοματεπώνυμό σας στο τέλος του κειμένου.

Μετά από ένα γεύμα σε ένα ελληνικό εστιατόριο να γράψετε ένα μήνυμα ηλεκτρονικού ταχυδρομείου (email) σε ένα φίλο/μία φίλη σας με τις εντυπώσεις σας.

ΚΑΤΑΝΟΗΣΗ ΠΡΟΦΟΡΙΚΟΥ ΛΟΓΟΥ

ΜΕΡΟΣ Α

Ακούστε ένα μήνυμα που μπορείτε να διαβάσετε στην ιστοσελίδα ενός καταστήματος και απαντήστε γεμίζοντας (●) τον κύκλο δίπλα στο γράμμα Α, Β ή Γ που αντιστοιχεί στη σωστή απάντηση για κάθε ερώτηση:

1. Το προϊόν που αγοράσατε από το κατάστημα

α) μπορείτε να το επιστρέψετε σε ένα μήνα.	β) μπορείτε να το επιστρέψετε σε δύο εβδομάδες.	γ) δε μπορείτε να το επιστρέψετε.

2. Η επιστροφή του προϊόντος

α) χρεώνεται επιπλέον κάθε φορά.	***β) είναι δωρεάν για μία φορά.***	γ) είναι δωρεάν κάθε φορά.

3. Αν έχετε χάσει τις ετικέτες των προϊόντων

α) μπορείτε να βάλετε δικές σας ετικέτες.	β) μπορείτε να τα επιστρέψετε.	***γ) δεν μπορείτε να τα επιστρέψετε.***

4. Από το κατάστημα «Ελληνικά Υφαντά» μπορείτε να αγοράσετε

α) παραδοσιακά διακοσμητικά.	***β) παραδοσιακά χαλιά.***	γ) ελληνικά κεντήματα.

5. Στο έντυπο επιστροφής μπορείτε να γράψετε

α) ποιο προϊόν έχετε χρησιμοποιήσει.	***β) αν το προϊόν ήταν ελαττωματικό.***	γ) τι θα θέλατε να αγοράσετε.

ΜΕΡΟΣ Β

Ακούστε έναν διάλογο μεταξύ μιας γυναίκας και ενός άνδρα που βρίσκονται σε ένα Αστυνομικό Τμήμα. Απαντήστε γεμίζοντας (●) τον κύκλο δίπλα στο γράμμα Σ για κάθε πρόταση που είναι σωστή ή δίπλα στο γράμμα Λ για κάθε πρόταση που είναι λανθασμένη:

ΜΕΡΟΣ Β	**Σ**	**Λ**
1. Ο άνδρας θέλει να βγάλει νέα ταυτότητα.	✓	
2. Ο άνδρας βγάζει ταυτότητα για πρώτη φορά.		✓
3. Για την έκδοση ταυτότητας χρειάζεται δύο έγχρωμες φωτογραφίες.		✓
4. Για τη νέα ταυτότητα θα πρέπει να συμπληρώσει μία υπεύθυνη δήλωση και μία αίτηση.	✓	
5. Ο άνδρας θα έχει τη νέα του ταυτότητα σε δυο εβδομάδες.		✓

Εισαγωγικές ερωτήσεις γνωριμίας



- Πότε ήρθατε στην Ελλάδα; Πώς προέκυψε;
- Εργάζεστε; Αν ναι, που;
- Έχετε οικογένεια;
- Γιατί θέλετε να μείνετε στην Ελλάδα;
- Τι σας αρέσει περισσότερο στην Ελλάδα;
- Τι σημαίνει για εσάς η Ελληνική ιθαγένεια;

ΘΕΜΑ 1

Για τα γενέθλια ενός φίλου/μιας φίλης σας, αποφασίσατε να του/της κάνετε έκπληξη ένα κατοικίδιο ζώο. Όμως, δεν έχετε αποφασίσει ακόμα ποιο κατοικίδιο θα του/της άρεσε περισσότερο.

Συζητήστε για τις δύο προτεινόμενες επιλογές που απεικονίζουν οι φωτογραφίες. Τι φροντίδα χρειάζεται το κάθε ζώο; Τι θα αποφασίζατε τελικά ως δώρο γενεθλίων και γιατί;





ΘΕΜΑ 2

Στις παρακάτω εικόνες βλέπετε δύο διαφορετικούς τρόπους διαβάσματος.

Ποια πλεονεκτήματα και ποια μειονεκτήματα έχει ο καθένας από αυτούς;

Ποιος από τους δύο είναι ο καλύτερος για σας και γιατί;

Ποιον θα θεωρούσατε καλύτερο για ένα παιδί και για ποιους λόγους;





ΘΕΜΑ 3

θέλετε να περάσετε ένα ήσυχο βράδυ με δυο φίλους στο σπίτι. Μπορείτε να δείτε μία ταινία στην τηλεόραση ή να παίξετε ένα επιτραπέζιο παιχνίδι. Συζητήστε για τις επιλογές που θα σας έκαναν να περάσετε πιο ευχάριστα.





ΘΕΜΑ 4

Στις παρακάτω εικόνες βλέπετε δύο διαφορετικά μέρη όπου μπορείτε να φάτε με τους φίλους σας. Ποια πλεονεκτήματα και ποια μειονεκτήματα έχει το κάθε μέρος; Πού προτιμάτε εσείς να τρώτε με τους φίλους σας και για ποιους λόγους;



